分数 × 整数①

第1クォーター

1dLで，板を$\frac{3}{7}$m²ぬれるペンキがあります。このペンキ2dLでは，板を何m²ぬれますか。

式 $\frac{3}{7}\times 2=\frac{3\times\square}{7}$

$=\frac{\square}{7}$

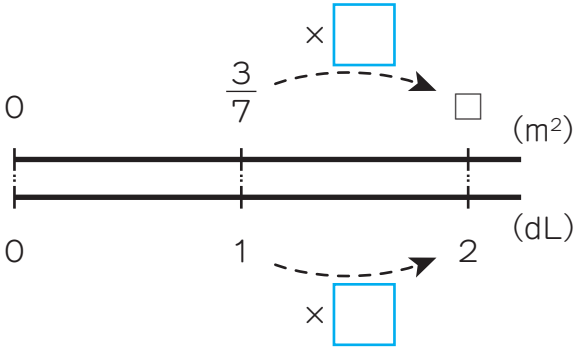

答え［　　］

第2クォーター

計算をしましょう。

① $\frac{5}{6}\times 7$

② $\frac{3}{13}\times 4$

③ $\frac{5}{2}\times 3$

④ $\frac{1}{7}\times 5$

分数に整数をかける計算は，分母はそのままにして，分子にその整数をかけます。

$\frac{○}{□}\times△=\frac{(○\times△)}{□}$

第3クォーター

米1kgの中には，でんぷんが約$\frac{3}{4}$kgふくまれています。米3kgの中には約何kgのでんぷんがふくまれていますか。

式

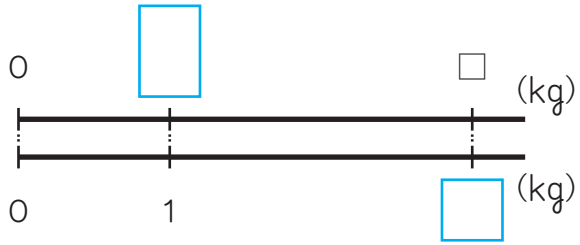

答え［　　］

第4クォーター

菊地祥平選手※が，子どもの誕生日ケーキをつくっています。ケーキを1個つくるのに$\frac{2}{7}$Lの生クリームを使います。このケーキを3個つくるのには，生クリームは何L必要ですか。

※菊地選手は，日本スイーツ協会より，スイーツのみりょく発信を行う「スイーツコンシェルジュスペシャルアンバサダー」に任命されています。

式

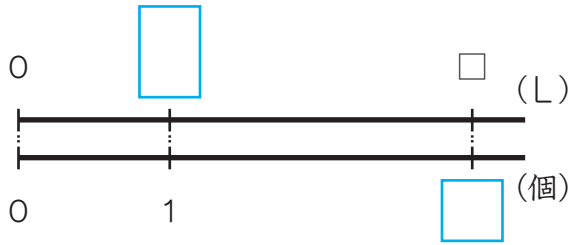

答え［　　］